２０２４年度

# 入学試験問題

# 社　　会

**最初に，以下の注意事項をよく読んでください。**

1．問題冊子は監督（かんとく）者の指示があるまで開いてはいけません。

2．監督者の指示により，最初に問題冊子の表紙と解答用紙の，指定されたらんに**受験番号**と**氏名**を記入してください。

3．試験問題の内容に関する質問には応じません。それ以外の用事があるときは手をあげてください。

4．受験中気分が悪くなったときは，監督者に申し出てください。

5．解答用紙は持ち帰らないでください。

| 氏名 | | 受験番号 | 5 | | | |
|---|---|---|---|---|---|---|

1　次の各問いについて，**解答番号 1 ～15 に**解答しなさい。

問１　中部地方に関する次の各問いに答えなさい。

(1)　**図 1** 中のＸ地点を流れる河川の河口の位置として適当なものを**図 1** 中の１～４から一つ選び，**解答番号 1 に**番号で答えなさい。

(2)　**図 2** 中のア～ウの雨温図は，**図 1** 中の松本（610.0 m），甲府（272.8 m），静岡（14.1 m）のいずれかのものです（カッコ内の数字は観測地点の標高）。ア～ウの雨温図と観測地点の組み合わせとして適当なものを下の１～６から一つ選び，**解答番号 2 に**番号で答えなさい。

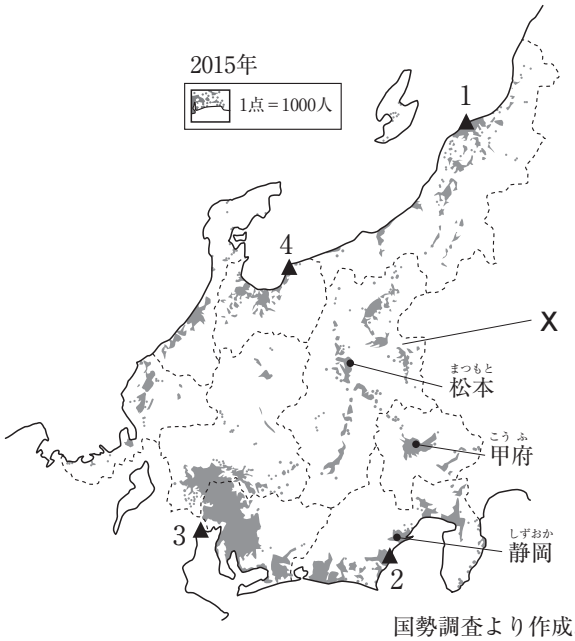


国勢調査より作成。

**図 1**

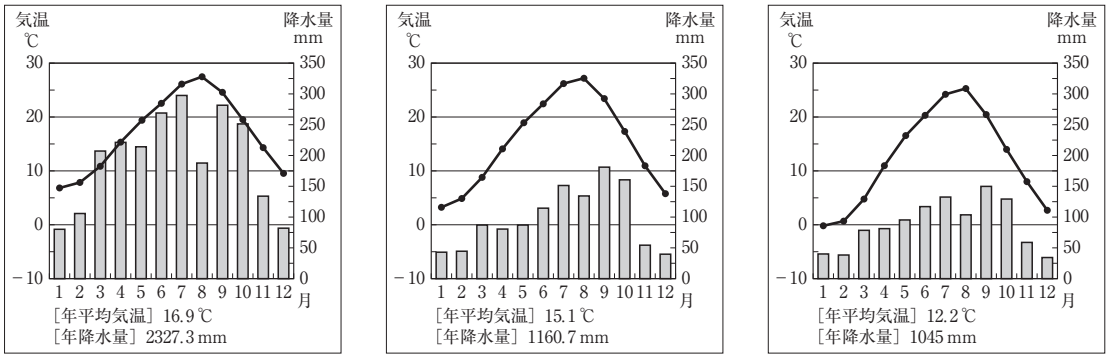


ア　　イ　　ウ

『データブック オブ・ザ・ワールド 2023』より作成。

**図 2**

| | 1 | 2 | 3 | 4 | 5 | 6 |
|---|---|---|---|---|---|---|
| ア | 松本 | 松本 | 甲府 | 甲府 | 静岡 | 静岡 |
| イ | 甲府 | 静岡 | 松本 | 静岡 | 松本 | 甲府 |
| ウ | 静岡 | 甲府 | 静岡 | 松本 | 甲府 | 松本 |

(3)　**表 1** は，富山県，長野県，愛知県のいずれかの農業産出額と米，野菜，果実の産出額を示したものです。表中のア～ウと県名との組み合わせとして適当なものを次の１～６から一つ選び，**解答番号 3 に**番号で答えなさい。

（2020 年）（億円）

| | 農業産出額 | 米 | 野菜 | 果実 |
|---|---|---|---|---|
| ア | 629 | 434 | 54 | 23 |
| イ | 2,893 | 274 | 1,011 | 195 |
| ウ | 2,697 | 413 | 891 | 894 |

『データで見る県勢 2023』より作成。

**表 1**

| | 1 | 2 | 3 | 4 | 5 | 6 |
|---|---|---|---|---|---|---|
| ア | 富山 | 富山 | 長野 | 長野 | 愛知 | 愛知 |
| イ | 長野 | 愛知 | 富山 | 愛知 | 富山 | 長野 |
| ウ | 愛知 | 長野 | 愛知 | 富山 | 長野 | 富山 |

問２　東日本大震災で大きな被害を受けた福島県では復興が進んでいるとはいえ，福島第一原子力発電所の事故により，いまだに居住が制限されている地区や，避難生活を送っている人が２万7000人以上います（2023年３月現在）。福島県に関する次の各問いに答えなさい。

⑴　**図３**は福島県と周辺の県を示したものです。**図３**中のエにあてはまる県名を，**解答番号４に漢字で**答えなさい。

⑵　**図４**は伊達市，福島市，大熊町と福島第一原子力発電所の位置を示したものです。また，**表２**は伊達市，福島市，大熊町のいずれかの昼夜間人口比率（夜間人口に対する昼間人口の割合）を示したものです。表中のア～ウと市町名との組み合わせとして適当なものを下の１～６から一つ選び，**解答番号５に**番号で答えなさい。

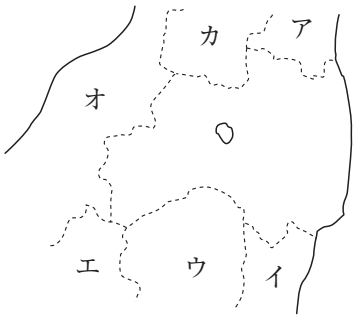


**図３**

**図４**

（2020年）（％）

| | 昼夜間人口比率 |
|---|---|
| ア | 688.0 |
| イ | 102.6 |
| ウ | 89.6 |

国勢調査より作成。

**表２**

| | 1 | 2 | 3 | 4 | 5 | 6 |
|---|---|---|---|---|---|---|
| ア | 伊達市 | 伊達市 | 福島市 | 福島市 | 大熊町 | 大熊町 |
| イ | 福島市 | 大熊町 | 伊達市 | 大熊町 | 伊達市 | 福島市 |
| ウ | 大熊町 | 福島市 | 大熊町 | 伊達市 | 福島市 | 伊達市 |

⑶　**表３**は福島県の産業別就業人口について，震災前の2010年と震災後の2015年，2020年を示したものです。下の各文を参考にして，表中のイとエにあてはまる産業を１～４からそれぞれ選び，イは**解答番号６**，エは**解答番号７に**番号で答えなさい。

（千人）

| | ア | イ | ウ | エ |
|---|---|---|---|---|
| 2010年 | 71 | 84 | 188 | 96 |
| 2015年 | 62 | 107 | 176 | 110 |
| 2020年 | 59 | 98 | 181 | 121 |

『データでみる県勢』各年版より作成。

**表３**

１．医療・福祉
２．建設業
３．製造業
４．農業・林業・漁業

・農業については震災前から高齢化が進んでいたが，震災後は原発事故で広がった放射性物質の影響で作付けや出荷の制限がかかるなど，福島県の農業は厳しい状況に置かれた。
・震災によって道路や港湾などが大きな被害を受けたが，震災後は復興のための建設需要が増大した。2023 年 5 月現在，震災によって被害を受けた県の公共土木施設の 99 %で復旧工事が完成した。
・製造品出荷額が東北地方で最も多い福島県だが，震災による工場の被災や交通網の寸断によって大きな影響を受けた。最近では製造品出荷額は震災前の水準まで回復している。
・福島県では 65 歳以上人口の割合が，25.0 %（2010 年）→ 28.7 %（2015 年）→ 31.7 %（2020 年）と増加している。

(4) **図 5** 中の 1 ～ 4 は宮城県，福島県，東京都，神奈川県のいずれかの地方財政の歳入の内わけを示したものです。福島県にあてはまるものを図中の 1 ～ 4 から一つ選び，**解答番号 8 に**番号で答えなさい。

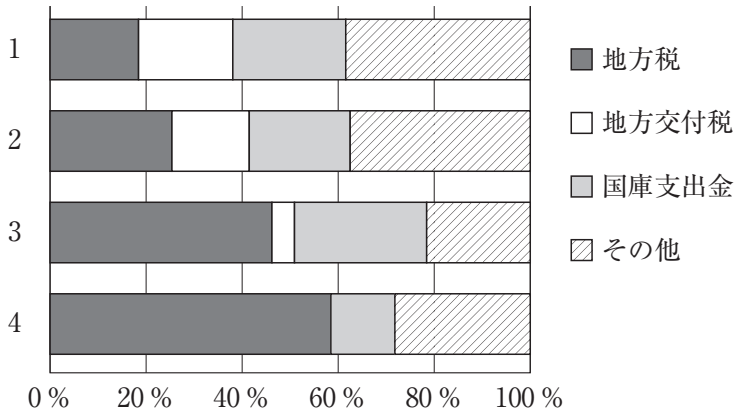


『データでみる県勢 2023 年版』より作成。

**図 5**

問 3　2019 年に日本で使用された農業用水は 533 億 $m^3$ でした。しかし，日本では人々の食生活を支えるために，その量よりもはるかに多くの水を利用しているのではないかという指摘があります。そのことについて述べた次の文中の空らん［ ア ］に入る言葉を**解答番号 9**，［ イ ］に入る言葉を**解答番号 10 に**答えなさい。

食料自給率の低い日本では多くの農産物を輸入しているが，それらを育てるためには水が必要であることから，外国の水を［ ア ］的に利用しているという考え方がある。また，国産の畜産物であっても，［ イ ］ため，外国の水を［ ア ］的に利用しているといえる。

問４　日本の自然は人々の生活に豊かさとともに，災害をもたらすことがあります。人々は災害の教訓を後世に伝えようとし，全国各地に石碑や記念碑（自然災害伝承碑）がつくられてきました。次の１～４の各文は，**図６**中のア～エのいずれかの自然災害伝承碑の内容をまとめたものです。図中のエにあてはまるものを１～４から一つ選び，**解答番号 11** に番号で答えなさい。

１．1910 年８月，連日の降雨は山間部で山崩れを引き起こした。その後，大量に流れ込んだ土砂や流木は濁流と共に川の堤防を決壊させ，この地域では多くの家屋が浸水し，農作物が全滅した。

２．1944 年 12 月に発生した地震による津波で，死者 23 名，家屋の流失 121 戸，倒壊 41 戸等の被害が発生した。

３．1995 年１月に発生した地震で震度６となったこの地域では，家屋全壊 5688 棟，半壊３万 6002 棟，臨海部や一部の川沿いで液状化が発生するなどの被害となった。

４．2014 年９月，火山が噴火。人知を超えた自然の容赦ない猛威により登山者らが巻き込まれ，58 名の尊い命が奪われるなど，火山史上希にみる噴火災害となった。

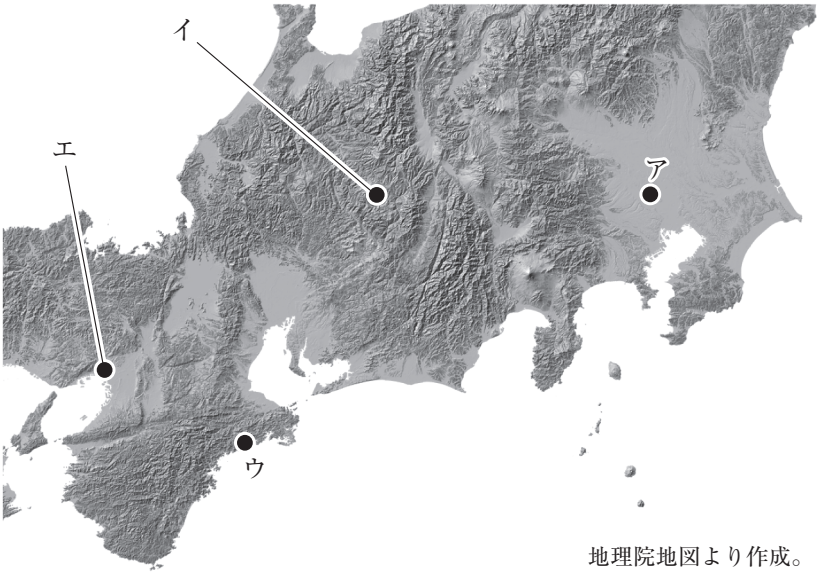


地理院地図より作成。

**図６**

問５　**表４**はアメリカ合衆国，中国，ドイツ，日本の乗用車輸出台数，乗用車の国内販売台数，電気自動車（乗用車）の国内販売台数を示したものです。中国と日本にあてはまるものを表中の１～４から選び，中国は**解答番号 12**，日本は**解答番号 13** に番号で答えなさい。

（千台）

| | 乗用車の輸出台数（2020 年） | 乗用車の国内販売台数（2021 年） | 電気自動車（乗用車）の国内販売台数（2021 年） |
|---|---|---|---|
| 1 | 3,408 | 3,676 | 44 |
| 2 | 2,647 | 2,622 | 681 |
| 3 | 1,912 | 3,350 | 631 |
| 4 | 767 | 21,482 | 3,334 |

『日本国勢図会 2023/24』より作成。

**表４**

問６　**表５**は北海道，東京都，愛知県，沖縄県における就業人口にしめる製造業，情報通信業，金融業・保険業，宿泊業・飲食サービス業の割合を示したものです。東京都にあてはまるものを表中の１～４から一つ選び，**解答番号 14** に番号で答えなさい。

（2020 年）（％）

| | 製造業 | 情報通信業 | 金融業・保険業 | 宿泊業・飲食サービス業 |
|---|---|---|---|---|
| 1 | 8.1 | 2.1 | 2.0 | 6.2 |
| 2 | 4.9 | 2.6 | 2.0 | 8.5 |
| 3 | 25.6 | 2.4 | 2.0 | 5.4 |
| 4 | 9.6 | 11.2 | 4.1 | 5.8 |

『データでみる県勢 2023 年版』より作成。

**表５**

問７　日本の人口ピラミッド（2020 年）を示した**図７**について述べた下のＸ・Ｙの各文の正誤の組み合わせとして正しいものを１～４から一つ選び，**解答番号 15** に番号で答えなさい。

Ｘ．第２次ベビーブーム世代が 65 歳以上人口として計算されるのは，2050～2055 年ごろにかけてである。

Ｙ．第２次ベビーブームが起こったころの日本の人口ピラミッドは，かつて発展途上国に広くみられた富士山型に近いものだった。

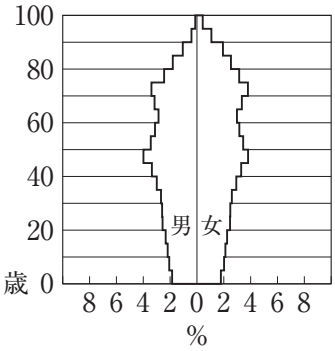


『世界国勢図会 2022/23』より作成。

**図７**

１．Ｘ：正　Ｙ：正　　２．Ｘ：正　Ｙ：誤　　３．Ｘ：誤　Ｙ：正　　４．Ｘ：誤　Ｙ：誤

2　人と人との関係や支配のあり方やそれらの移り変わりなどに関する次の各問いについて，**解答番号16〜35に**解答しなさい。

問１　アフリカで誕生した人類は，移動を重ねながら現在の日本列島にあたる地域でも生活するようになりました。このことについて，次の各問いに答えなさい。

(1)　現在の日本列島にあたる地域で人類が生活するようになった旧石器時代について述べた文として最も適当なものを次の１〜４から一つ選び，**解答番号16に**番号で答えなさい。

１．おもに石をみがいて作った石器を用いた。

２．煮炊(にた)きをするための土器がさかんにつくられた。

３．地面に穴を掘(ほ)り屋根を付けた住居に定住した。

４．狩(か)りや木の実の採集によって食料を得た。

(2)　集落の様子は，その時代の人と人との関係を反映していることがあります。たとえば古墳時代になると，豪族(ごうぞく)とよばれた地域の有力者と民衆の生活がはっきりと分かれ，豪族は民衆の住む集落から離(はな)れた場所に館を営むようになります。次の図Ｘ〜Ｚは，縄文時代の遺跡(いせき)である三内丸山遺跡，弥生時代の遺跡である吉野ケ里遺跡，古墳時代の遺跡である三ツ寺Ｉ遺跡やその周辺の集落遺跡などの様子を示したもののいずれかです。これらの図が示す時代について，古いものから年代順に正しく配列したものを下の１〜６から一つ選び，**解答番号17に**番号で答えなさい。

Ｘ．

Ｙ．

Ｚ．



出典は，
Ｘは公益財団法人青森観光コンベンション協会ホームページ，
Ｙは浜島書店『新詳(しんしょう)日本史』，
Ｚは山川出版社『詳説日本史』。

１．Ｘ―Ｙ―Ｚ　　２．Ｘ―Ｚ―Ｙ　　３．Ｙ―Ｘ―Ｚ

４．Ｙ―Ｚ―Ｘ　　５．Ｚ―Ｘ―Ｙ　　６．Ｚ―Ｙ―Ｘ

問２　各地の人びとの小さなまとまりが統一されていき，広い地域を支配する政府があらわれ，人びとをまとめるためのさまざまなしくみが作られました。このことについて，次の各問いに答えなさい。

⑴　701 年に制定された大宝律令には，広い地域を支配するためのしくみが取り入れられていました。**図 1** は，律令で定められた統一された形式にもとづいて政府が出した命令書です。図について説明した文中の空らん【　A　】・【　B　】にあてはまる文の組み合わせとして最も適当なものを下の１～４から一つ選び，**解答番号 18 に**番号で答えなさい。

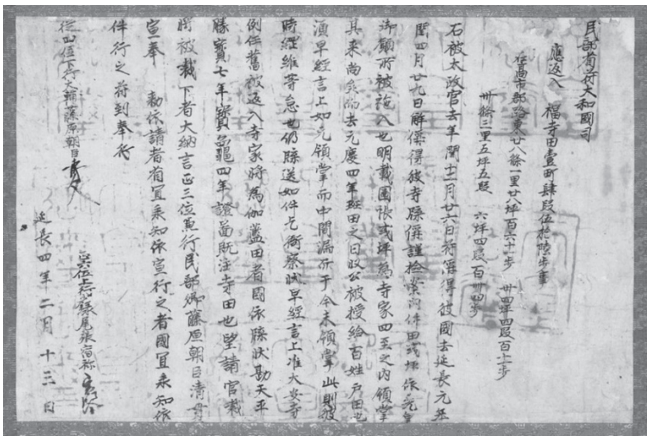

**図 1**　　出典はｅ国宝（国立文化財機構所蔵国宝・重要文化財の閲覧（えつらん）サイト）。

| |
|---|
| **図 1** は，戸籍や税などを管理する民部省という中央の役所が，大和国（現在の奈良県）の国司にあてて出した命令書で，政府が寺院から没収した田の返却を認めるという内容である。文書には天皇の命令であることを示す印が押されていて，これは【　A　】ことを示している。律令が制定され，文書により命令を伝達するしくみが取り入れられ，それまでの【　B　】しくみが改められたと考えられる。 |

１．【　A　】政府の命令は絶対に変更されない　　【　B　】各地の支配を豪族にゆだねる
２．【　A　】政府の命令は絶対に変更されない　　【　B　】政府が全国を統一して支配する
３．【　A　】政府が出した正式な命令書である　　【　B　】各地の支配を豪族にゆだねる
４．【　A　】政府が出した正式な命令書である　　【　B　】政府が全国を統一して支配する

⑵　人と人との新たな関係は，政府による支配地域の拡大によっても生じました。政府に従わない「蝦夷（えみし）」とよばれた人びとを支配するなどのために，桓武天皇によって東北地方に派遣（はけん）された人物はだれですか。**解答番号 19 に**答えなさい。

問３　武士が勢力を拡大すると，人びとの支配のあり方や政治の進め方も大きく変化していきました。このことについて，次の各問いに答えなさい。

⑴　**史料 1** は 1180 年にある人物が挙兵したことを聞いた貴族の日記の一部です。史料に記された挙兵した人物はだれですか。**解答番号 20 に漢字で**答えなさい。

**史料 1**

伝え聞いたところによると，謀反（むほん）人の源義朝の子はここ数年，流罪で流された伊豆国（現在の静岡県）にいた。ところが，最近はもっぱら悪だくみを行い，先ごろ役人に乱暴を加えて，伊豆国などを奪い取ってしまった。……まるで平将門の反乱の時のようだという話である。

(2) **史料1**中の波線部の人物や出来事に関して述べた文A～Dについて，正しいものの組み合わせとして最も適当なものを次の1～4から一つ選び，**解答番号21**に番号で答えなさい。

A．関東地方で反乱を起こした。

B．大宰府を襲撃した。

C．このとき新皇を名乗った。

D．藤原道長によって鎮圧された。

1．A・C　2．A・D　3．B・C　4．B・D

(3) 武士が支配する各地の荘園などではさまざまな産物が生産され，人びとはさかんに取引を行いながら新しい関係を結んでいました。**図2**は，鎌倉時代の市の様子で，荘園などで生産されたさまざまな産物が取引されている様子がえがかれています。図について述べた文X・Yの正誤の組み合わせとして最も適当なものを下の1～4から一つ選び，**解答番号22**に番号で答えなさい。

**図2**　出典は浜島書店『新詳日本史』。

X．鎌倉時代は各地で生産された産物の輸送に水上交通を用いることはほとんどなかったため，市は水辺には設けられなかったと考えられる。

Y．鎌倉時代の市にはおもに男性の商人によって米や魚，布やつぼなどが売買されており，武士や僧侶，女性や子どもなどは市に出入りできなかったと考えられる。

1．X：正　Y：正　2．X：正　Y：誤　3．X：誤　Y：正　4．X：誤　Y：誤

(4) 室町時代には，共通の利害をもつ人びとが団結して一揆が形成され，なかには一国全体を支配するほど強力な一揆も形成されました。こうした一揆のうち，「百姓の持ちたる（支配している）国のようになった」と言われた地域があった県として最も適当なものを次の1～4から一つ選び，**解答番号23**に番号で答えなさい。

1．石川県　2．山形県　3．栃木県　4．熊本県

問４　戦国時代を経て全国統一がなされると，それまでとは異なる人びとの関係や支配のあり方が形成される一方，変化しない関係もありました。このことについて，次の各問いに答えなさい。

⑴　全国統一を達成した豊臣秀吉について述べた文として最も適当なものを次の１～４から一つ選び，**解答番号 24 に**番号で答えなさい。

１．関東の北条氏を滅ぼして全国統一を達成したのち，関白に任命されて政治を主導した。

２．琵琶湖のほとりに壮大な天守をもつ安土城を築き，全国統一の拠点とした。

３．一揆を防ぎ，農業などに専念させるため，百姓から刀や弓，鉄砲などを没収した。

４．キリスト教の布教を禁じて，スペイン船やポルトガル船の来航を禁止した。

⑵　全国を支配する江戸幕府の将軍が大名と関係を結ぶために示したきまりの１つに，参勤交代があります。次の文章は，昨年度（2023 年度）の本校入学試験における社会の設問の一部と，受験生の解答の一例です。この設問ではほとんどの受験生がこのように解答しており，採点にあたって正答とすることはできませんでした。なぜこのような解答を正答とすることができないのでしょうか。その理由を解答らんにあうように，**解答番号 25 に**説明しなさい。

設問　**史料 2** のような参勤交代のしくみを将軍が大名に示した目的は何ですか。説明しなさい。

**史料 2**

一　大名などが，国もとと江戸とを参勤交代するよう定める。毎年夏の４月中に江戸へ参勤すること。参勤の時の従者の数が最近とても多いようである。これはひとつには，藩の支配の上でのむだであり，また一方で，領民の負担となる。以後は，身分に応じて人数を減少せよ。

*出題にあたって表現や形式を改めたところがあるが，設問の大意に変更はない。

【受験生の解答の一例】

大名に参勤交代を行わせてたくさんお金を使わせ，大名の勢力を衰えさせようとした。

⑶　参勤交代の目的について説明した文中の空らん【　C　】・【　D　】にあてはまる語句と文の組み合わせとして最も適当なものを下の１～４から一つ選び，**解答番号 26 に**番号で答えなさい。

武士とはもともと貴族などの警備をする人びとの身分であった。鎌倉幕府が成立してからも，将軍の家来の武士である御家人は京都や鎌倉の警備が義務づけられ，これは御家人が将軍のために行う【　C　】であった。こうした将軍と家来の武士の関係は江戸幕府が成立しても変わらず，将軍の家来の武士である大名は，将軍のために一定の軍勢を引き連れて江戸の警備を行う義務を果たし，これにより将軍は【　D　】。

１．【　C　】御恩　【　D　】大名の領地である藩を大名が支配することを保証した

２．【　C　】御恩　【　D　】禁中並公家諸法度を定めて天皇や公家を統制した

３．【　C　】奉公　【　D　】大名の領地である藩を大名が支配することを保証した

４．【　C　】奉公　【　D　】禁中並公家諸法度を定めて天皇や公家を統制した

⑷　鎖国体制が成立して海外の人びととの関係は大きく制限されましたが，1792 年に蝦夷地の根室に来航して日本との貿易の関係を求めたロシア人使節はだれですか。**解答番号 27 にカタカナで**答えなさい。

問５　幕末の混乱から明治維新を経て，人と人との関係や支配のあり方は大きく変化します。このことについて，次の各問いに答えなさい。

⑴　明治政府が行った政策について説明した文中の空らん【　Ｅ　】にあてはまる語句として最も適当なものを下の１～４から一つ選び，**解答番号 28 に**番号で答えなさい。

| |
|---|
| 中央の政府が強い権限をもつ中央集権を確立するため，1869 年に明治政府は大名に天皇に対する【　Ｅ　】を願い出させた。江戸時代，大名の領地の一部は大名の家臣に与えられることもあり，家臣は与えられた領地を独自に支配していたが，大名が天皇に【　Ｅ　】を行ったため，それまで支配していた領地の返上を大名に対して願い出る家臣もいた。 |

１．版籍奉還　　２．廃藩置県　　３．地租改正　　４．徴兵令

⑵　大日本帝国憲法の制定により日本は立憲国家となりますが，憲法が発布されたことをお祝いした人びとのなかには，かつて自由民権運動に参加して政府を批判した人もいました。そのような人も憲法発布を祝ったのはなぜだと考えられますか。**解答番号 29 に**説明しなさい。

⑶　大日本帝国憲法制定後，憲法の精神にもとづいた政治を求める運動が高まっていきます。そうした運動を支えた理論である民本主義を主張した人物はだれですか。**解答番号 30 に漢字で**答えなさい。

⑷　戦争は，人と人との関係を大きく変えます。明治時代以降の戦争について述べた文Ｘ～Ｚについて，古いものから年代順に正しく配列したものを下の１～６から一つ選び，**解答番号 31 に**番号で答えなさい。

Ｘ．満州や朝鮮への進出をはかるロシアと，イギリスと同盟を結んだ日本の戦争が起こった。

Ｙ．ヨーロッパで戦争が起こると，イギリスとの同盟を口実に日本がドイツとの戦争を起こした。

Ｚ．朝鮮で発生した農民反乱をきっかけに，朝鮮半島に出兵した日本と清との間で戦争になった。

１．Ｘ―Ｙ―Ｚ　　２．Ｘ―Ｚ―Ｙ　　３．Ｙ―Ｘ―Ｚ

４．Ｙ―Ｚ―Ｘ　　５．Ｚ―Ｘ―Ｙ　　６．Ｚ―Ｙ―Ｘ

問６　アジア･太平洋戦争とその敗戦は，人と人との関係や支配のあり方を大きく変えた出来事です。一方，戦争の前後でつながっていることもあります。これらのことについて，次の各問いに答えなさい。

⑴　次の**史料３**は日中戦争がはじまったことを受けて制定された法律です。史料中の空らん【　Ｆ　】にあてはまる語句を，**解答番号 32 に漢字３字で**答えなさい。なお，空らん【　Ｆ　】にはこの法律の名称にかかわる語句が入ります。

**史料３**

第１条　この法律において国家【　Ｆ　】とは，戦時や，戦争に準ずる事変の場合に際し，国防目的を達成するため，国の全力を最も有効に発揮できるよう，人的および物的資源を統制し，運用することを意味する。

(2) 太平洋戦争開戦の際に日本軍が攻撃(こうげき)した場所について，**図3**中のA～Dから正しいものの組み合わせとして最も適当なものを下の1～4から一つ選び，**解答番号33に**番号で答えなさい。

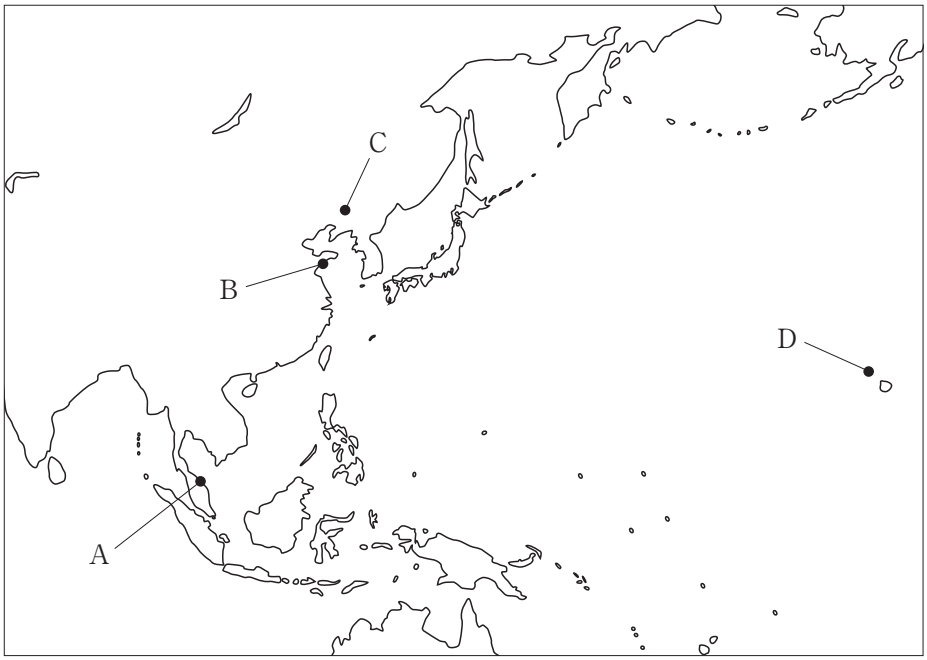


**図3**

1．A・C　2．A・D　3．B・C　4．B・D

(3) 戦争が続くなかで進められた政策のうち，敗戦後も続けられた政策もありました。こうした政策について説明した文中の空らん【　G　】にあてはまる語句を，**解答番号34に漢字4字で**答えなさい。

| |
|---|
| 戦争が長期化するなかで，食糧の確保は不可欠だった。そのため政府は，地主の権利をおさえつつ，食糧を生産する小作人の保護を進め，地主が土地を手放して小作人が購入しやすくなるような政策などを実施していった。こうした戦争中の取り組みもあって，戦後GHQ（連合国軍総司令部）によって指示された【　G　】が急速に進められ，自作農を中心とした戦後日本の農業が形成された。 |

(4) アジア・太平洋戦争の敗戦後，交戦国や日本が植民地支配した国ぐにとの関係について述べた文X・Yの正誤の組み合わせとして最も適当なものを下の1～4から一つ選び，**解答番号35に**番号で答えなさい。

X．吉田茂内閣のもとサンフランシスコ平和条約が締結され，日本はすべての交戦国との講和を実現し，国交を回復した。

Y．佐藤栄作内閣のもとで日韓基本条約が結ばれたことによって，日本が植民地支配した国ぐにとの国交はすべて正常化した。

1．X：正　Y：正　2．X：正　Y：誤　3．X：誤　Y：正　4．X：誤　Y：誤

3　次の【A】～【G】の各文は2023年1月～7月の出来事に関する新聞報道等についてそれぞれ触(ふ)れられています。よく読んで，後の各問いについて，**解答番号36～45に**解答しなさい。

【A】:「G7広島サミット開催(かいさい)」

日本の岸田首相を議長として，アメリカ合衆国のバイデン大統領，イギリスのスナク首相，イタリアのメローニ首相，カナダのトルドー首相，ドイツのショルツ首相，フランスのマクロン大統領，そして［　1　］を代表してミシェル議長とフォン・デア・ライエン委員長が広島市内のホテルに一同に会し，「G7広島サミット」が開催されました。トルドー首相は「伊勢志摩(いせしま)サミット」に続いて2度目のG7訪日となりました。期間中，①首脳たちは［　2　］の世界遺産にも登録されている原爆(げんばく)ドームがある平和記念公園内の広島平和記念資料館（原爆資料館）を訪れ，原爆死没者慰霊碑(しぼつしゃいれい)に献花(けんか)を行いました。また，ウクライナのゼレンスキー大統領も来日し，ロシアによるウクライナ侵略(しんりゃく)に対する制裁とウクライナ支援(しえん)及び復興について意見が交わされました。

日本はウクライナ支援のため，②2022年度補正予算（第2次）において資金・技術援助などを行うための［　3　］(政府開発援助）として8億円を計上しています。

【B】:「『花博』開催1500日前記者発表会開催」

横浜市の瀬谷区と旭区にまたがる「旧上瀬谷通信施設」(2015年に米軍より返還）において2027年に開催予定の国際園芸博覧会（通称，「花博」）の開催1500日前記者発表会が2023年2月8日に開催されました。本会には，③横浜市の山中竹春市長も参加し，花博開催に向けた意気込みを語りました。

【C】:「明治以来初の中央省庁地方移転」

以前より東京一極集中による問題が議論されてきた中，地方創生を目的とする政府関係機関の地方移転の募集(ぼしゅう)に京都府が名乗りを上げ，このほど芸術創作活動の振興(しんこう)や著作権等の保護，宗教に関する事務などを取り扱(あつか)う【　X　】は，新年度を前に先行して一部職員が京都の新たな地で業務を開始しました。これは，中央省庁としては明治以来初の地方移転となります。

【D】:「天皇陛下インドネシア訪問」

④天皇陛下は，2023年6月17日から23日にかけて即位(そくい)後初となる公式外国訪問としてインドネシアを訪問されました。訪問中，陛下はジャワ島にある［　2　］の世界遺産に登録されている仏教遺跡「ボロブドゥール寺院」を訪問されました。インドネシアのこの時期は乾季(かんき)にあたり，好天に恵(めぐ)まれた中でのご訪問となりました。この寺院は8世紀頃(ごろ)に建てられたものですが，噴火に伴(ともな)う火山灰により埋(う)もれ，修復が必要となり［　2　］が中心となって専門家を集め修復・保存活動に動き，その作業に日本人も深く関わったものです。

【E】:「国際手配の元国会議員，逮捕」

インターネットの動画投稿サイトで実業家や芸能人らを繰り返し脅迫した容疑などで逮捕状が出ていた，⑤元国会議員の男が2023年6月4日，滞在先の［　4　］から帰国し，成田空港で警視庁に⑥逮捕されました。警視庁が国際刑事警察機構を通じて国際手配するとともに現地に捜査員を派遣し，現地当局に元議員の早期の帰国に向けて働きかけを行っていました。

【F】:「財務省，税収過去最高を発表」

財務省が2023年7月3日に発表した2022年度の一般会計決算概要によると，国の税収は前年度比6.1％増の71兆1374億円で，3年連続で過去最高を更新しました。これは，企業の業績が回復して【　あ　】税収が膨らんだほか，歴史的な物価高で【　い　】税収が増え，さらに賃上げの動きが広がったことにより【　う　】税収も伸びたことが要因として挙げられます。

【G】:「コロナ5類引き下げ」

［　5　］は，新型コロナウイルス感染症に関する「国際的に懸念される公衆衛生上の緊急事態」の宣言を終了すると発表しました。しかし，新型ウイルスは依然として大きな脅威だと警告し，今後は各国が独自に対処していくことになりました。緊急事態の宣言が2020年1月30日に出されてから3年以上が経っての宣言終了となりました。

また，国内においては新型コロナウイルスの感染症法上の位置づけが季節性インフルエンザなどと同じ「5類」に移行したことに伴い，外出自粛要請などはなくなり，感染対策は個人の判断になりました。また，流行状況の把握は医療機関などが毎日すべての感染者数を報告する「全数把握」から指定医療機関が1週間分の感染者数をまとめて報告する「定点把握」に変更され，厚生労働省の発表は週1回となりました。無料のワクチン接種は継続され，高齢者など重症化リスクの高い人への追加接種が始まりました。

問1　文中の空らん［　1　］～［　5　］を埋めるために語群内の略称を使用した場合，1か所だけ適切な略称が語群内にない空らんがあります。その空らん番号を答えるとともに，その空らんに入る適切な略称を**解答番号36に**答えなさい。

［語群］

| | | | | | |
|---|---|---|---|---|---|
| TPP | UNHCR | NPT | EU | IAEA | NAFTA |
| PKO | UNCTAD | WTO | ILO | CTBT | ASEAN |
| WHO | UNESCO | IMF | UAE | OPEC | NATO |

問2　文中の空らん【　X　】に入る省庁名を**解答番号37に漢字で**答えなさい。

問３　下線部①に関連して，岸田首相・バイデン大統領・トルドー首相の就任日からＧ７広島サミット初日までの在任期間を比べたとき，在任期間が長い順に正しく配列したものを次の１～６から一つ選び，**解答番号 38 に**番号で答えなさい。

１．岸田　→ バイデン → トルドー　　２．岸田　→ トルドー → バイデン
３．バイデン → 岸田　→ トルドー　　４．バイデン → トルドー → 岸田
５．トルドー → 岸田　→ バイデン　　６．トルドー → バイデン → 岸田

問４　下線部②に関連して，2023 年度の当初予算案において歳出の項目で最も金額が多いものを次の１～４から一つ選び，**解答番号 39 に**番号で答えなさい。

１．防衛関係費　２．社会保障関係費　３．公共事業関係費　４．国債費

問５　下線部③に関連して，近年，地方首長の多選を禁じる条例や自粛を促す条例が各地で制定されていますが，一方で多選を重ねる首長も存在します。2020 年に実施された山梨県早川町長選では，現職以外に立候補者がなく，無投票で「11 選」を果たし全国の現役首長の最多選を更新したという例があります。一般的に，途中辞職等がなく「11 期」を務め上げたとすれば，通算在任期間は何年となるか**解答番号 40 に算用数字で**答えなさい。

問６　下線部④に関連して，日本国憲法において規定されている天皇の行う国事行為にあてはまらないものを次の１～４から一つ選び，**解答番号 41 に**番号で答えなさい。なお，すべて正しい場合には「５」と答えなさい。

１．法律や条約を公布する　２．衆議院を解散する
３．最高裁判所長官を任命する　４．国会を召集する

問７　下線部⑤に関連して，各選挙制度の長所と短所を考慮しながらこの元議員が当選した 2022 年に実施された国政選挙の種類として正しいものを次の１～４から一つ選び，**解答番号 42 に**番号で答えなさい。

１．衆議院・小選挙区選挙　２．衆議院・比例代表選挙
３．参議院・選挙区選挙　４．参議院・比例代表選挙

問８　下線部⑥に関連して，一般的に逮捕された後，起訴された場合は裁判を受けることになります。裁判を受ける権利は「基本的人権」で保障されています。裁判を受ける権利はどのような人権に含まれるか，正しいものを次の１～６から一つ選び，**解答番号 43 に**番号で答えなさい。

１．請求権　２．平等権　３．生存権
４．社会権　５．自由権　６．自己決定権

問９　文中の空らん【　あ　】～【　う　】に入る言葉の組み合わせとして正しいものを次の１～６から一つ選び，**解答番号 44 に**番号で答えなさい。

１．あ：消費　い：所得　う：法人　　２．あ：消費　い：法人　う：所得

３．あ：所得　い：法人　う：消費　　４．あ：所得　い：消費　う：法人

５．あ：法人　い：消費　う：所得　　６．あ：法人　い：所得　う：消費

問10　【A】～【G】の各文のタイトルに示す出来事を時系列に並べた場合，２番目と４番目にくる出来事の組み合わせとして正しいものを次の１～６から一つ選び，**解答番号 45 に**番号で答えなさい。

１．２番目：A　４番目：C　　２．２番目：A　４番目：G　　３．２番目：C　４番目：A

４．２番目：C　４番目：G　　５．２番目：G　４番目：A　　６．２番目：G　４番目：C